اختبار رياضيات شهرين للصف السادس الأساسي **الدرجة**

اسم الطالب : .....

التاريخ : /2026/4

السؤال الأول : (5علامات)

ضع دائرة حول الإجابة الصحيحة :

1) الكسر $\frac{2}{9}$ يكتب كنسبة مئوية :

أ) 0,2 % ب) 22% ج) 22,2%

2) 5% من ال 80 =

أ) $\frac{1}{4}$ ب) 4 ج) 4%

3) إذا كان سعر حقيبة في متجر 80 شيكل ، وقام البائع بعمل خصم 25% على البضائع ، فإن سعر الحقيبة بعد الخصم =

أ) 20 شيكل ب) 60 شيكل ج) 40 شيكل

4) مربع مساحته 16سم^2 ، فإن مساحة المثلث المشترك معه في القاعدة والارتفاع =

أ) 8سم^2 ب) 32سم^2 ج) 4سم^2

5) في الشكل المجاور الارتفاع هو :

أ) أد ب) ب هـ ج) أ ب

6) دائرة قطرها 7سم ، فإن محيطها =

أ) 22سم ب) 44سم ج) 22سم^2

لتحميل المزيد من الملفات زورونا على موقع المكتبة الفلسطينية الشاملة www.sh-pal.com

7) متوازي أضلاع مساحته = 60سم^2 وطول قاعدته 6سم فإن إرتفاعه =

أ) 360سم　　ب) 10سم　　ج)180سم

8) دائرة محيطها 10 سم فإن نصف قطرها =

أ) 10سم　　ب) 5سم　　ج) 314سم

9) محيط الدائرة يساوي تقريباً _____ أمثال القطر :

أ) 4　　ب) 3　　ج) 5

10) شبه منحرف طولا قاعدتيه (5سم ، 7سم) وارتفاعه 6سم فإن مساحته = :

أ) 72سم2　　ب) 36سم2　　ج) 26سم2

السؤال الثاني : (4علامات)

جد مساحة المنطقة المظللة في الأشكال الآتية :

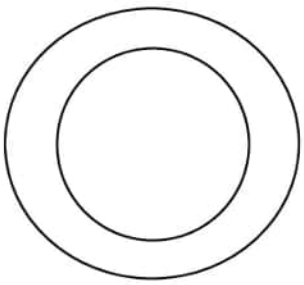

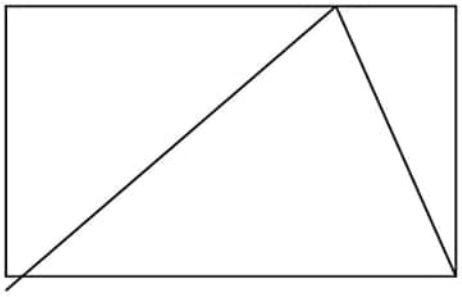

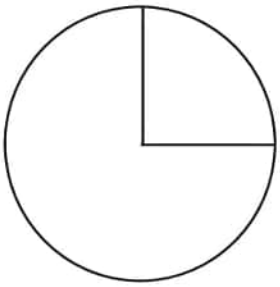

لتحميل المزيد من الملفات زورونا على موقع المكتبة الفلسطينية الشاملة www.sh-pal.com

أ ب = 5سم

ب جـ = 6سم

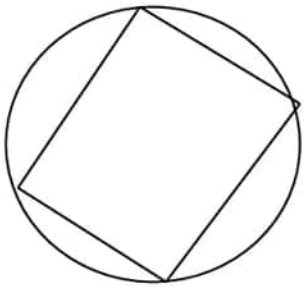

السؤال الثالث : (2علامة)

استخدم تحويل الكسور الآتية إلى نسب مئوية للمقارنة بينهما :

أ) $\frac{5}{8}$ ☐ $\frac{3}{5}$ ب) $\frac{6}{5}$ ☐ $\frac{12}{10}$

السؤال الرابع : (2علامة)

في متجر تم بيع 40% من البضاعة في أحد الأيام ، فإذا كانت الكمية الأصلية 500قطعة ، كم قطعة بيعت في ذلك اليوم .

السؤال الخامس : (2علامة)

في اختبار الرياضيات أجاب رامي على 7 أسئلة من أصل 10 أسئلة بشكل صحيح، ما النسبة المئوية للإجابات الخاطئة :

لتحميل المزيد من الملفات زورونا على موقع المكتبة الفلسطينية الشاملة www.sh-pal.com

السؤال السادس : (2,5علامة)

ارسم دائرة نصف قطرها 3سم وأعين عليها :

أ) المركز م

ب) نصف القطر أ م

ج) القطر ب د

د) الوتر و س

السؤال السابع : (2,5علامة)

أكمل الفراغ :

1) دائرة مساحتها 100 سم2 فإن نصف قطرها = _____

2) مثلث مساحته 15سم2 فإن مساحة المستطيل المشترك معه في القاعدة والارتفاع=_____

3) النسبة التقريبية = _____

4) النسبة المئوية هي نسبة تاليها العدد _____

5) حذاء سعره 100 شيكل أصبح سعره بعد الخصم 80 شيكل فإن النسبة المئوية للخصم = _____

أحبكم يا أبطال العلم

معلمة المادة / هنا سلعوس

لتحميل المزيد من الملفات زورونا على موقع المكتبة الفلسطينية الشاملة www.sh-pal.com

المكتبة الفلسطينية الشاملة للمعلم والطالب
تحضير دروس - اختبارات - أوراق عمل

لتحميل المزيد من موقع المكتبة الفلسطينية الشاملة

http://www.sh-pal.com

تابعنا على صفحة الفيس بوك: www.facebook.com/shamela.pal

تابعنا على قنوات التلجرام: www.sh-pal.com/p/blog-page_42.html

أقسام موقع المكتبة الفلسطينية الشاملة:

الصف الأول: www.sh-pal.com/p/blog-page_24.html

الصف الثاني: www.sh-pal.com/p/blog-page_46.html

الصف الثالث: www.sh-pal.com/p/blog-page_98.html

الصف الرابع: www.sh-pal.com/p/blog-page_72.html

الصف الخامس: www.sh-pal.com/p/blog-page_80.html

الصف السادس: www.sh-pal.com/p/blog-page_13.html

الصف السابع: www.sh-pal.com/p/blog-page_66.html

الصف الثامن: www.sh-pal.com/p/blog-page_35.html

الصف التاسع: www.sh-pal.com/p/blog-page_78.html

الصف العاشر: www.sh-pal.com/p/blog-page_11.html

الصف الحادي عشر: www.sh-pal.com/p/blog-page_37.html

الصف الثاني عشر: www.sh-pal.com/p/blog-page_33.html

ملازم للمتقدمين للوظائف: www.sh-pal.com/p/blog-page_89.html

شارك معنا: www.sh-pal.com/p/blog-page_40.html

اتصل بنا: www.sh-pal.com/p/blog-page_9.html