ورقة عمل – الرياضيات

الصف الأول الأساسي

درس: الترتيب التصاعدي

اسم الطالب/ة: ..... الصف: ..... التاريخ: .....

الترتيب التصاعدي هو ترتيب الأعداد من الأصغر إلى الأكبر.

ابدأ من الأصغر واتبع السهم

1 أعد تصاعدياً وأكمل.

أ ابدأ ١ ← ٢ ← ☐ ← ☐ ← ٥

ب ابدأ ٢ ← ☐ ← ☐ ← ٥ ← ٦

2 أضع دائرة حول العدد الأصغر.

أ ٦ ٢ ٤

ب ٩ ٥ ٧

3 أضع دائرة حول العدد الأكبر.

أ ٣ ٧ ٤

ب ٨ ١ ٦

4 أكمل المسار من ١ إلى ٩.

ابدأ ١ ← ☐ ← ٣ ← ☐ ← ☐ ← ٦ ← ☐ ← ٨ ← النهاية ٩

إعداد: موقع المكتبة الفلسطينية الشاملة

ورقة عمل - الرياضيات

الصف الأول الأساسي

درس: الترتيب التصاعدي

اسم الطالب/ة: ..... الصف: ..... التاريخ: .....

أبدأ بالأصغر وأنتهي بالأكبر

٥ أرتب ثلاثة أعداد من الأصغر إلى الأكبر.

أ

٦	٣	٨

ابدأ ← ☐ ← ☐

ب

٥	١	٤

ابدأ ← ☐ ← ☐

ج

سبعة	اثنان	ستة

أكتب بالأرقام.

ابدأ ← ☐ ← ☐

٦ أرتب أربعة أعداد تصاعديًا.

أ

٧	١	٥	٣

ابدأ ← ☐ ← ☐ ← ☐

ب

٨	٤	٢	٦

ابدأ ← ☐ ← ☐ ← ☐

٧ أكتب العدد المناسب في كل فراغ.

أ ٢ ← ☐ ← ٤ ← ☐ ← ٦

ب ٥ ← ☐ ← ٧ ← ☐ ← ٩

ورقة عمل - الرياضيات

الصف الأول الأساسي

درس: الترتيب التصاعدي

اسم الطالب/ة: ..... الصف: ..... التاريخ: .....

ورقة العمل الثانية - الصفحة ١

رحلة الصعود في عالم الأعداد

أبدأ بالأصغر وأصل إلى الأكبر

١. أكمل سلّم الأعداد.

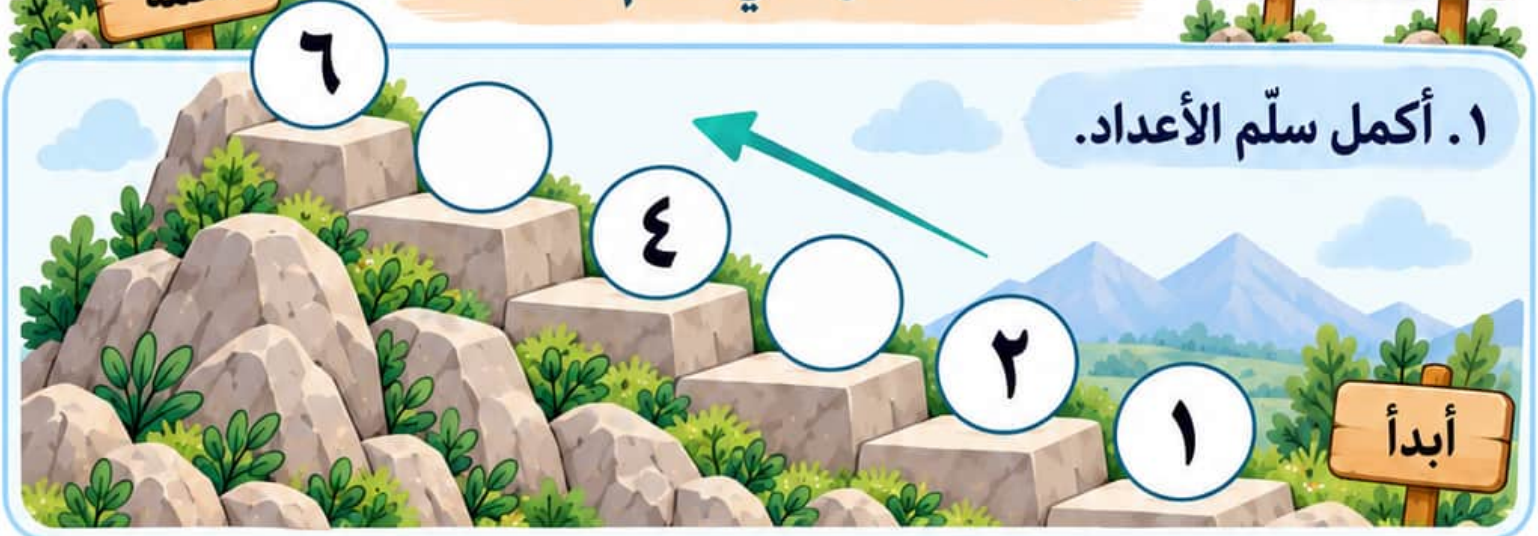

٢. أرتب أعداد البالونات تصاعديًا.

أكتب الأعداد من الأصغر إلى الأكبر.

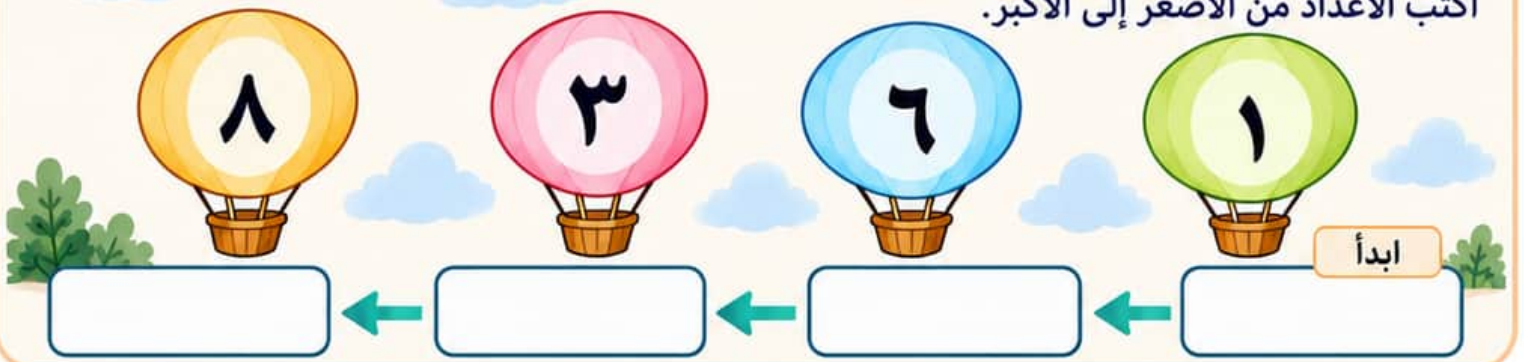

٣. أكمل طريق القمة.

أختار العدد المناسب وأكتبه في الطريق.

ورقة عمل - الرياضيات

الصف الأول الأساسي

درس: الترتيب التصاعدي

رحلة الصعود في عالم الأعداد

اسم الطالب/ة: ..... الصف: ..... التاريخ: .....

ورقة العمل الثانية - الصفحة ٢

أكمل رحلتي مع الأعداد

٤. أجد العدد المفقود.

ابدأ

أ ٦ ← ☐ ← ٨

ب ٣ ← ☐ ← ٥

٥. أرتب عربات القطار.

أكتب الأعداد من الأصغر إلى الأكبر.

٩ ٢ ٦

ابدأ

☐ ← ☐ ← ☐

٦. أجمع البطاقات تصاعديًا.

٨ ٣ ١ ٦

ابدأ

☐ ← ☐ ← ☐ ← ☐

٧. أكتشف العدد الموجود في المكان الخطأ.

أحيط العدد الذي أغير مكانه بدائرة، ثم أصحح الترتيب.

٦ ٣ ٥ ٤ ٢

ابدأ

☐ ← ☐ ← ☐ ← ☐ ← ☐

اختبار شامل - الرياضيات

الصف الأول الأساسي

درس: الترتيب التصاعدي

اسم الطالب/ة: .....

الصف: ..... التاريخ: .....

1 أعد تصاعديًا وأكمل.

ابدأ ← ١ ← ( ) ← ( ) ← ٤ ← ٥ ← ( ) ← ٧

2 أضع دائرة حول العدد الأصغر.

أ) ٧ ، ٤ ، ٨

ب) ٦ ، ٩ ، ٣

3 أضع دائرة حول العدد الأكبر.

أ) ٢ ، ٥ ، ١

ب) ٤ ، ٩ ، ٦

4 أكمل المتتالية.

أ) ابدأ ← ٤ ← ( ) ← ٦ ← ٧

ب) ابدأ ← ٦ ← ٧ ← ( ) ← ٩

إعداد: موقع المكتبة الفلسطينية الشاملة

اختبار شامل - الرياضيات

الصف الأول الأساسي

درس: الترتيب التصاعدي

اسم الطالب/ة: ..... الصف: ..... التاريخ: .....

5 أرتب ثلاثة أعداد من الأصغر إلى الأكبر.

ابدأ ٩ ← ٤ ← ١

6 أرتب أربعة أعداد تصاعديًا.

ابدأ ٧ ← ٢ ← ٩ ← ٤

7 أكتشف الخطا وأصححه.

أحيط العدد الذي أغير مكانه بدائرة، ثم أكتب الترتيب الصحيح.

ابدأ ١ ← ٣ ← ٤ ← ٢ ← ٥

8 أكمل السلم تصاعديًا.

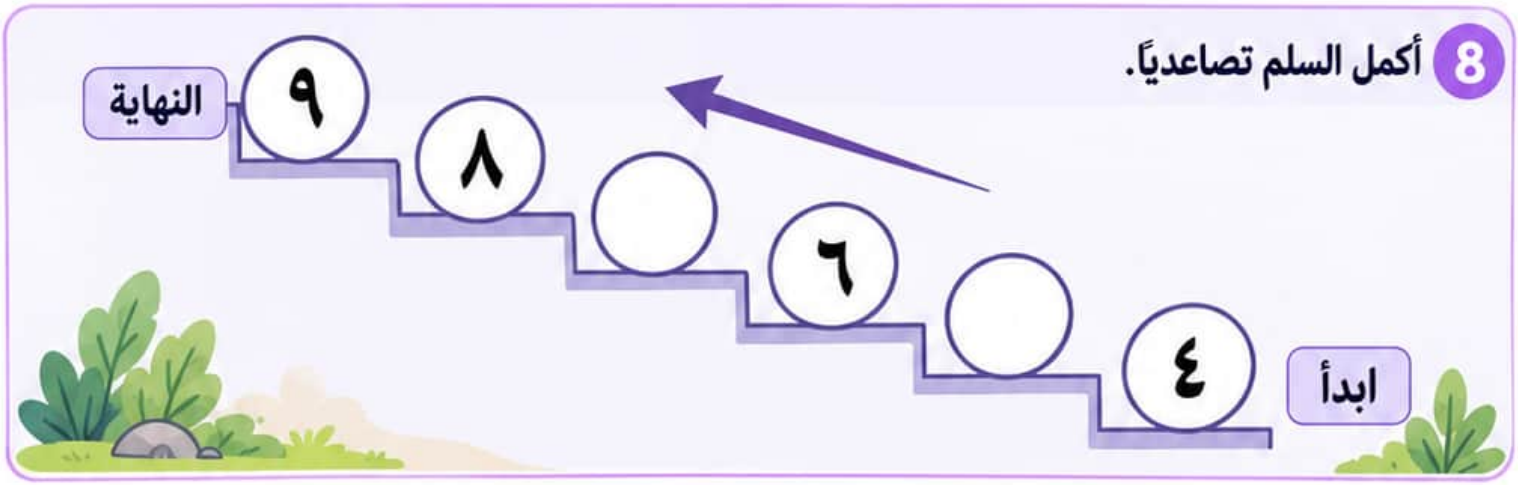

المكتبة الفلسطينية الشاملة للمعلم والطالب
تحضير دروس - اختبارات - أوراق عمل

لتحميل المزيد من موقع المكتبة الفلسطينية الشاملة

http://www.sh-pal.com

تابعنا على صفحة الفيس بوك: www.facebook.com/shamela.pal

تابعنا على قنوات التلجرام: www.sh-pal.com/p/blog-page_42.html

أقسام موقع المكتبة الفلسطينية الشاملة:

الصف الأول: www.sh-pal.com/p/blog-page_24.html

الصف الثاني: www.sh-pal.com/p/blog-page_46.html

الصف الثالث: www.sh-pal.com/p/blog-page_98.html

الصف الرابع: www.sh-pal.com/p/blog-page_72.html

الصف الخامس: www.sh-pal.com/p/blog-page_80.html

الصف السادس: www.sh-pal.com/p/blog-page_13.html

الصف السابع: www.sh-pal.com/p/blog-page_66.html

الصف الثامن: www.sh-pal.com/p/blog-page_35.html

الصف التاسع: www.sh-pal.com/p/blog-page_78.html

الصف العاشر: www.sh-pal.com/p/blog-page_11.html

الصف الحادي عشر: www.sh-pal.com/p/blog-page_37.html

الصف الثاني عشر: www.sh-pal.com/p/blog-page_33.html

ملازم للمتقدمين للوظائف: www.sh-pal.com/p/blog-page_89.html

شارك معنا: www.sh-pal.com/p/blog-page_40.html

اتصل بنا: www.sh-pal.com/p/blog-page_9.html